第29講　融合問題（歴史・公民）

Step 1

1　次は，大阪で開催された「日本万国博覧会」に関することについてまとめた内容の一部である。あとの問いに答えなさい。

「日本万国博覧会」の開催決定

・1964（昭和 39）年，アジアで初の国際博覧会を大阪で開催することを求める要望書が，あ池田勇人（いけだはやと）内閣総理大臣らに提出され，1970 年の万国博覧会開催を積極的に推進することが閣議決定された。

・1965（昭和 40）年，「日本万国博覧会」を大阪の千里（せんり）丘陵において，1970 年に開催することが決定された。このころわが国では，経済の成長が続いており，1968（昭和 43）年には，GNP（国民総生産）が資本主義国の中でアメリカに次ぐ第 2 位になった。

↓

「日本万国博覧会」の開幕

・1970 年 3 月，開会式が行われた。い参加国は 77 か国で，国際機関や州・都市等の展示館も設けられた。

・展示館では，それぞれが設定したテーマにもとづいて展示が行われた。展示館のうち，ポルトガル館やオランダ館では，わが国との交流の歴史に関する展示が行われた。

ポルトガル館　南蛮屏風（びょうぶ）や鉄砲などが展示され，16 世紀にポルトガル人が種子島（たねがしま）に漂着したことに始まる，日本とポルトガルとの関係について紹介された。

オランダ館　4 階と 5 階にあった「鏡の間」では，江戸時代に長崎の出島（でじま）におかれていたオランダ商館の商人が江戸幕府を訪問する場面などが鏡に映された。



↓

「日本万国博覧会」の閉幕

・1970 年 9 月，閉会式が行われた。183 日間の開催期間中の入場者数は，当時としては国際博覧会史上最多となる 6,422 万人であった。

・「日本万国博覧会」は，う高度経済成長期を象徴するイベントの一つであったとされている。

（1）あ池田勇人について述べた次の文中の［　　］に当てはまる語を**漢字 2 字**で書きなさい。

・池田勇人は，1960（昭和 35）年に内閣総理大臣に任命された。

・池田勇人内閣は，「所得［　　　］」をスローガンにかかげ，経済成長を促進する政策を進めた。

(2) ㋑参加国の中には，現在とは国のしくみや名称が異なる国もあった。次の(ⅰ)～(ⅲ)は，国の統一や解体に関するできごとについて述べたものである。(ⅰ)～(ⅲ)を年代の古いものから順に並べかえると，どのような順序になるか。あとのア～カから正しいものを一つ選びなさい。

(ⅰ) ソビエト連邦が解体された。

(ⅱ) 東西ドイツが統一された。

(ⅲ) 南北ベトナムが統一された。

ア　(ⅰ)→(ⅱ)→(ⅲ)　イ　(ⅰ)→(ⅲ)→(ⅱ)　ウ　(ⅱ)→(ⅰ)→(ⅲ)

エ　(ⅱ)→(ⅲ)→(ⅰ)　オ　(ⅲ)→(ⅰ)→(ⅱ)　カ　(ⅲ)→(ⅱ)→(ⅰ)

(3) ㋒高度経済成長期は，1950年代中ごろから始まり，1970年代初めにかけて続いた。

図は，1955（昭和30）年から1975（昭和50）年における，わが国の円とアメリカ合衆国のドルとの為替（かわせ）相場の推移を表したものである。ただし，「ドル」は「アメリカドル」を表すものとする。

図　1ドルあたりの円相場の推移

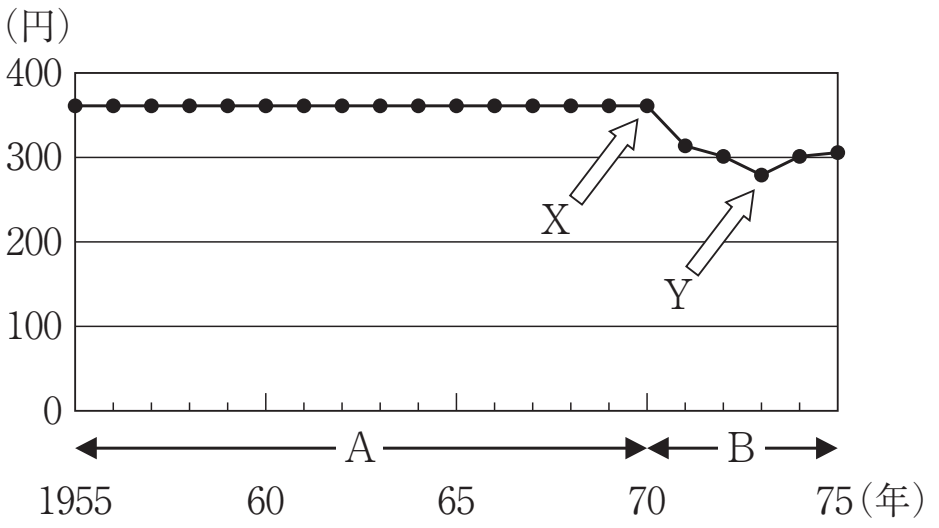

(『日本の100年』により作成)

① 次のア～エのうち，図中にAで示した期間に起こったできごととして正しいものはどれか。一つ選びなさい。

ア　朝鮮戦争が始まった。

イ　石油危機が起こった。

ウ　東京でオリンピック大会が開催された。

エ　サンフランシスコ平和条約が締結された。

② 図中にAで示した期間において，公害が深刻化し，裁判が行われたこともあった。図中にBで示した期間において，四大公害についての裁判で判決が下された。

(a) 右の地図中のア～エで示した河川のうち，鉱山の排水による水質汚濁が原因で下流域にイタイイタイ病が発生した河川はどれか。一つ選びなさい。

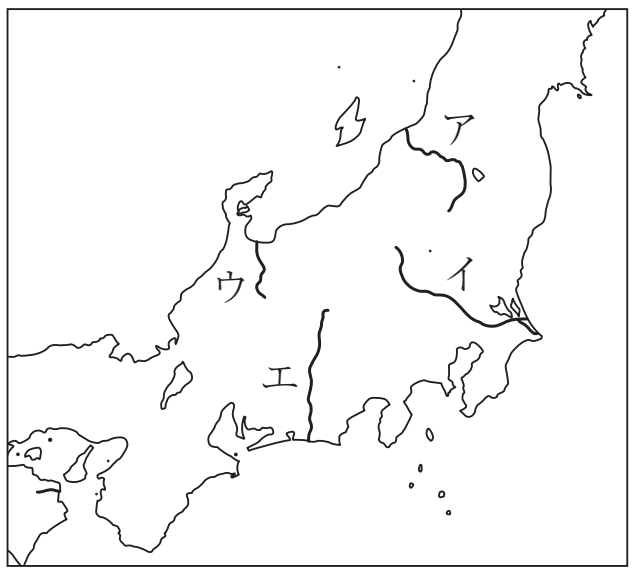

(b) 公害が深刻化する中，環境権が主張されるようになった。社会の変化にともなって，日本国憲法の条文には明記されていない権利が新しい人権として主張されるようになり，環境権もその一つである。次のア～エのうち，新しい人権に当たるものはどれか。一つ選びなさい。

ア 財産権　　イ 生存権　　ウ 裁判を受ける権利　　エ プライバシーの権利

③ 次の文は，為替相場と，図から読み取れる内容とについてまとめたものである。文中の［ⓐ］に当てはまる数を書きなさい。また，ⓑ〔　〕から適切なものを一つ選びなさい。

・為替相場とは，自国の通貨と外国の通貨との交換比率のことである。図において，X は交換比率が「1 ドル＝360 円」，Y は交換比率が「1 ドル＝280 円」であることを示している。

・為替相場が変動し，X から Y になった場合を考える。この場合，X において 1 台の価格が 126,000 円のテレビ 1 台の価格はドルに換算すると［ⓐ］ドルであるが，Y において 1 台の価格が 126,000 円のテレビ 1 台の価格はドルに換算すると 450 ドルである。

・為替相場が変動し，X から Y になった場合，ⓑ〔ア 円のドルに対する価値が上がって円高　　イ 円のドルに対する価値が下がって円安〕になったといえる。

【大阪府】

Step　2

2　Hさんは，北陸新幹線を使って金沢まで旅行をすることになったので，沿線の各県について調べました。次の地図をみて，問1～問3に答えなさい。

地図

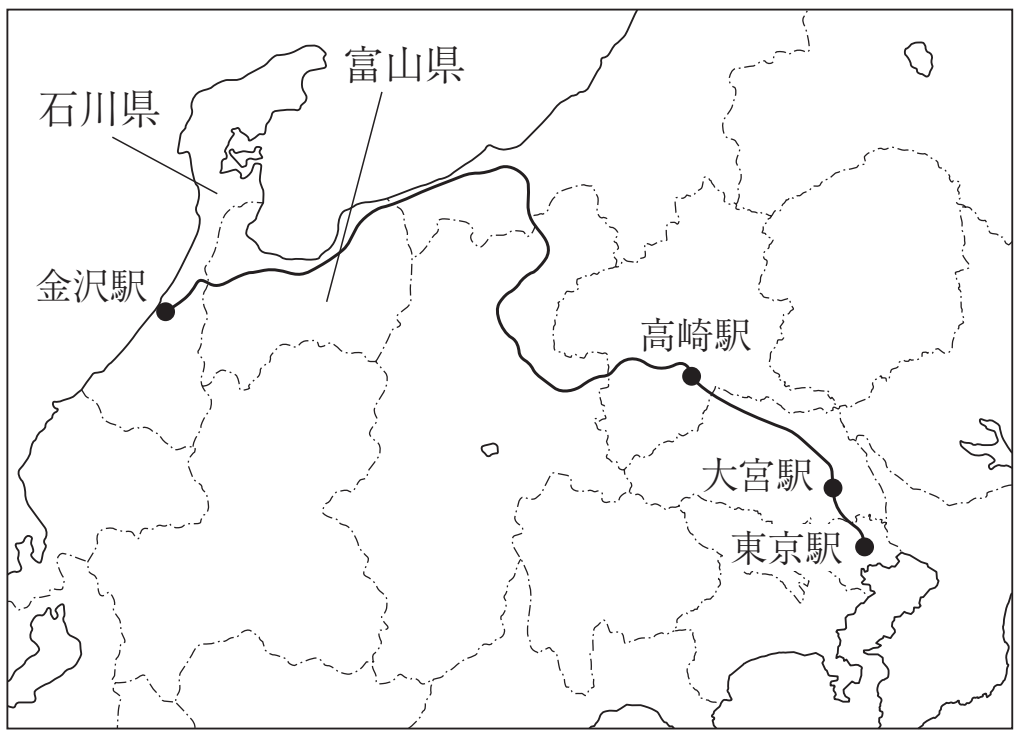

問1　Hさんは，地図中の富山県の歴史について調べ，次のようにまとめました。文中の［X］と［Y］にあてはまる語の組み合わせとして正しいものを，あとのア～エの中から一つ選び，その記号を書きなさい。

1918年の［X］をきっかけとした米の買いしめから，米の値段がおおはばに上がりました。富山県の魚津(うおづ)町（現在の魚津市）で始まった米の安売りを求める騒動は，新聞報道を通じて全国の主要な都市に広がり，米騒動に発展しました。

米騒動により寺内正毅(まさたけ)内閣が退陣すると，衆議院第一党の立憲政友会総裁である［Y］が首相となり，本格的な政党内閣が成立しました。［Y］は華族ではなかったことから「平民宰相(へいみんさいしょう)」とよばれました。

ア　X―韓国併合　　　Y―原敬(たかし)
イ　X―シベリア出兵　Y―原敬
ウ　X―シベリア出兵　Y―桂(かつら)太郎
エ　X―韓国併合　　　Y―桂太郎

問2　Hさんは，地図中の石川県の歴史について調べ，次のようにまとめました。まとめをみて，あとの(1)と(2)の問いに答えなさい。

まとめ

応仁の乱以後の時代を戦国時代といいます。この時代は，実力のある者が力をのばして上の者に打ち勝つ［Ⅰ］の風潮が広がって，戦国大名が各地に登場するようになりました。一方，石川県南部にあたる当時の加賀(かが)では，［Ⅱ］への信仰で結びついた武士や農民が一揆をおこし，約100年にわたって自治を行いました。

(1) まとめの中の［Ⅰ］と［Ⅱ］にあてはまる語の組み合わせとして正しいものを，次のア～エの中から一つ選び，その記号を書きなさい。

ア　Ⅰ―攘夷　　Ⅱ―日蓮宗
イ　Ⅰ―攘夷　　Ⅱ―浄土真宗（一向宗）
ウ　Ⅰ―下剋上　Ⅱ―日蓮宗
エ　Ⅰ―下剋上　Ⅱ―浄土真宗（一向宗）

(2) 下線部の戦国大名が，武士や領民の行動を取りしまり，領国を統一して支配するためにそれぞれの領国で独自に定めた法を何というか，その名称を書きなさい。

問3　Hさんは，北陸地方で生産がさかんなある製品について，2010年と2012年における国内出荷量にしめる企業別割合のグラフをみつけ，以下のようにまとめました。文中の［①］～［③］にあてはまる語の組み合わせとして最も適切なものを，あとのア～エの中から一つ選び，その記号を書きなさい。

グラフ

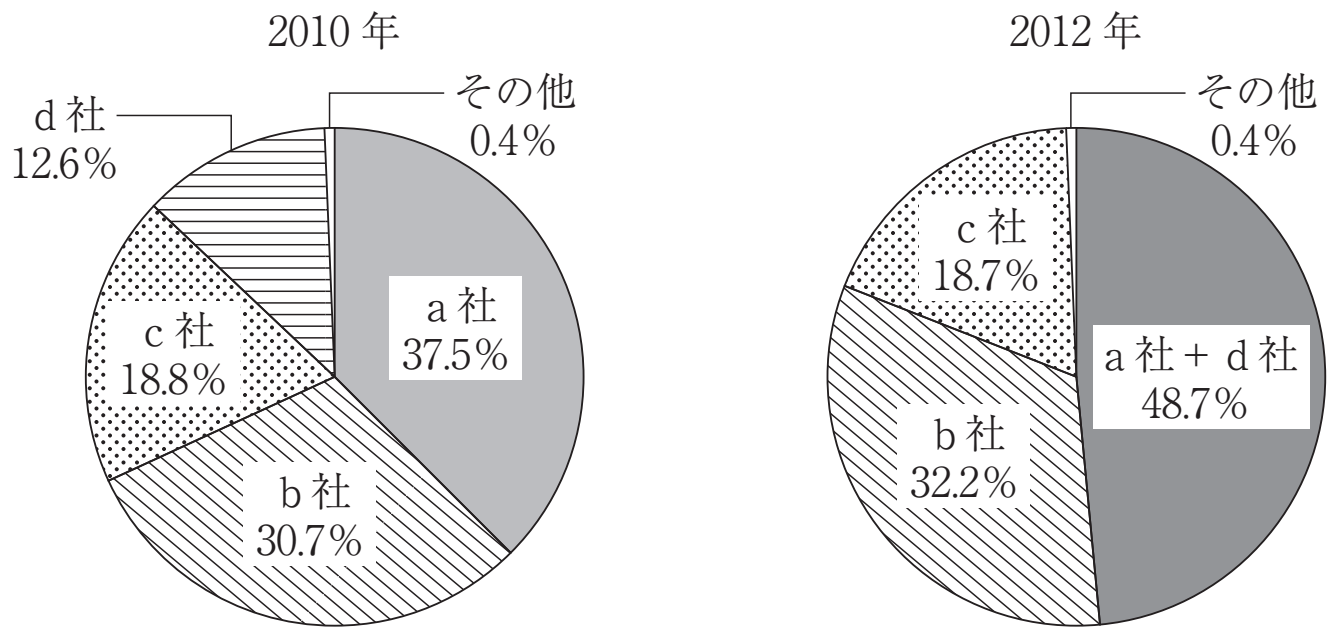

（「日経シェア調査」2012年版，2014年版から作成）

企業は，［①］を増やすために，グラフ中のa社とd社のように，合併・買収などによって企業規模の拡大を図ることがあります。グラフをみると，ある製品の市場では［②］が進んだことが読みとれます。一般に，［②］が進むと価格競争は弱まり，消費者が不利益をこうむることがあります。そこで，企業間の競争をうながすために［③］が制定され，公正取引委員会がこの法律の運用にあたっています。

ア　①―賃金　②―寡占化　③―消費者基本法
イ　①―賃金　②―多様化　③―独占禁止法
ウ　①―利潤　②―寡占化　③―独占禁止法
エ　①―利潤　②―多様化　③―消費者基本法

【埼玉県】

Step 3

3 中学生の優太さんは，我が国で選挙権年齢が引き下げられたことを知り，選挙や政治について関心をもった。次は，社会科の調べ学習について，優太さんが同じ班の直子さん，大地さんと行った会話の一部である。①～③に答えなさい。

優太：法律が改正されて，私たちも高校生の時に選挙で投票することがあるかもしれないね。そこで，(a)選挙と政治について調べることを提案するよ。

直子：いい提案だわ。賛成よ。選挙権年齢が引き下げられたのは70年ぶりらしいし，(b)歴史的な視点からも調べてみる必要があると思うわ。

大地：そうだね。これを機会に，(c)国民の政治参加について調べたり，選挙で投票する意義についても考えてみたりしたいな。

優太：それでは，「責任ある一票のために選挙と政治について考える」をテーマに調べ学習を進めよう。

直子，大地：賛成。

① 優太さんは，下線部(a)に関連して，国会議員の選挙や国会の役割について調べた。(1)，(2)に答えなさい。

(1) 優太さんは右の表を作成し，次のように説明した。 (A) には当てはまることばを漢字二字で， (B) には当てはまることばを漢字四字で書きなさい。

右の表からは，参議院の選挙が3年ごとに行われているのに対して，衆議院の選挙は不規則に行われていることがわかります。これは，衆議院には参議院にない (A) 制度があることが大きく影響しています。

参議院議員の選挙は，原則として都道府県を単位とした選挙区制と，全国を一つの単位とした (B) 制に分けて行われます。

国政選挙の実施年
(2000年～2014年)

衆議院	参議院
2000年	2001年
2003年	2004年
2005年	2007年
2009年	2010年
2012年	2013年
2014年	――

(2) 国会のしくみやはたらきについてまとめた文として適当なのは，ア～エのうちではどれですか。当てはまるものをすべて答えなさい。

ア　国会では，法律の制定や予算の審議・議決などが行われている。
イ　衆議院と参議院の議決が異なったときには，両院協議会が開かれることがある。
ウ　二院制を採用することで，慎重な審議を行うことができる。
エ　国会に提出された議案は，本会議で審議された後，委員会で採決される。

② 直子さんは，下線部(b)に関連して，近現代の議会政治の展開と選挙権拡大の歴史について調べた。(1)～(3)に答えなさい。

(1) 近代の政治の展開に関わる次のア～エのできごとを，時代の古いものから順に並ぶように記号で答えなさい。

ア　板垣退助が自由党を結成した。　　イ　最初の帝国議会が開かれた。

ウ　伊藤博文が初代内閣総理大臣に就任した。　　エ　五箇条の御誓文が出された。

(2) 直子さんは，右の表を作成し，有権者の割合が特に増加した年に着目して，次のようにまとめた。[(C)]，[(D)]に当てはまることばをそれぞれ書きなさい。

1925年：護憲運動を経て，満25歳以上の[(C)]に選挙権が与えられた。

1945年：第二次世界大戦後，満[(D)]に選挙権が与えられた。

人口に占める有権者の割合の推移

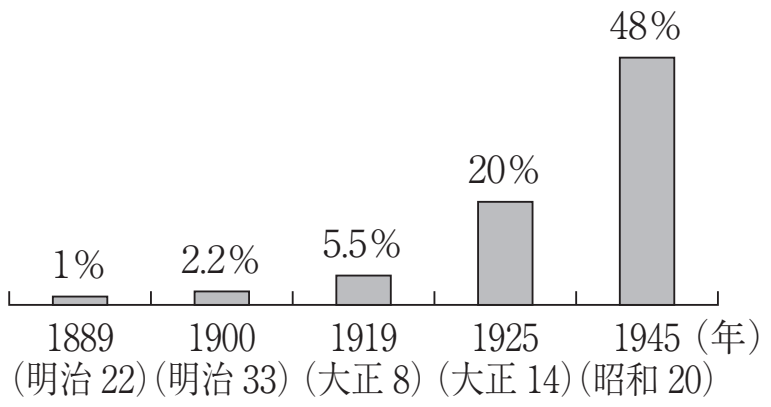

（横浜市選挙管理委員会Webページから作成）

(3) 第二次世界大戦後，初の衆議院議員総選挙が実施された年に日本国憲法が公布された。「基本的人権の尊重」，「平和主義」とともに，日本国憲法を構成する基本原理（原則）の一つを何といいますか。

③ 大地さんは，下線部(c)に関連して，国民の政治参加の権利と方法について調べた。(1)，(2)に答えなさい。

(1) 基本的人権を保障するための権利の一つで，選挙権や選挙に立候補する被選挙権などを含む権利を何といいますか。

(2) 大地さんが，政治参加の方法について次のように説明するとき，[　　]に当てはまることばとして<u>適当でない</u>のは，ア～エのうちではどれですか。一つ答えなさい。

選挙で投票すること以外の政治参加としては，[　　]などがあります。さまざまな政治参加の方法について，理解と認識を深めていくことが大切です。

ア　まちづくりや住民運動への参加

イ　条例の制定や改廃を求める違憲審査権の行使

ウ　マスメディアを活用した世論づくりへの参加

エ　国や地方公共団体に要望を伝える請願権の行使

【岡山県】

〈 ***Note*** 〉

第29講　融合問題（歴史・公民）

Step 1

1　(1) 倍増　(2) カ　(3) ① ウ　② (a) ウ　(b) エ　③ ⓐ 350　ⓑ ア

Step 2

2　問1. イ　問2. (1) エ　(2) 分国法　問3. ウ

Step 3

3　① (1) (A) 解散　(B) 比例代表　(2) ア・イ・ウ（順不同）
② (1) エ→ア→ウ→イ　(2) (C) 男子　(D) 20歳以上の男女　(3) 国民主権
③ (1) 参政(権)　(2) イ